きょうりゅう ものさし

1ねんせい　1　どっちが ながい？

なまえ（　　）

いろのついたマスをかぞえて、（）にかずをかこう。1マスは 1メートルだよ。

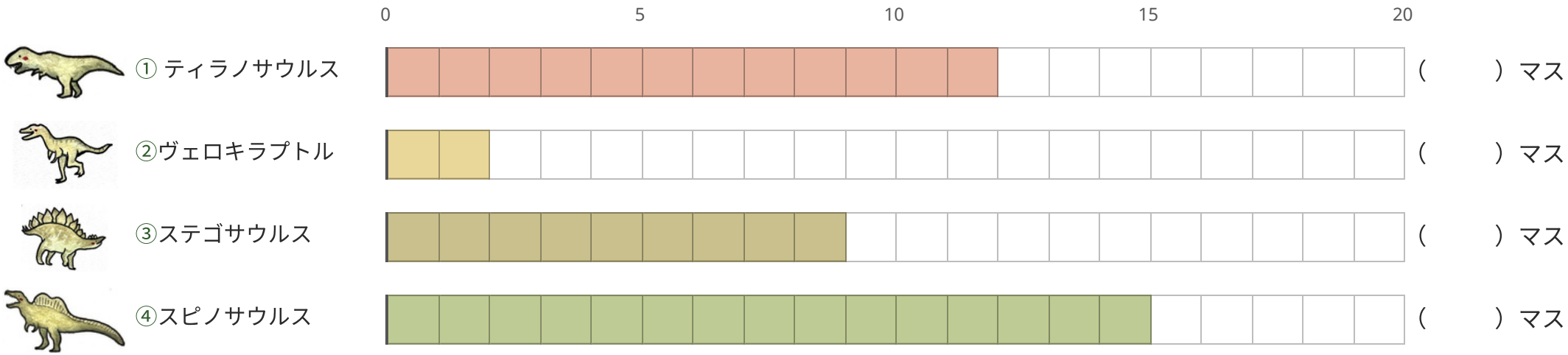

くらべて みよう（みの まわりの もの）



1 いちばん ながい きょうりゅうは どれ？ ばんごうで こたえよう。

2 いちばん みじかい きょうりゅうは どれ？

3 ①ティラノサウルス と ③ステゴサウルス、ながいのは どっち？

4 「バス」より ながい きょうりゅうを ぜんぶ ばんごうで かこう。

5 ④は ③より なんマス ながい？

6 ②と ④を つなげると なんマス？ チャレンジ

※ おおきさは だいたいの ながさです。イラスト：てがき すいさい

きょうりゅう ものさし

1ねんせい　1　どっちが ながい？　こたえ

いろのついたマスをかぞえて、（）にかずをかこう。1マスは 1メートルだよ。

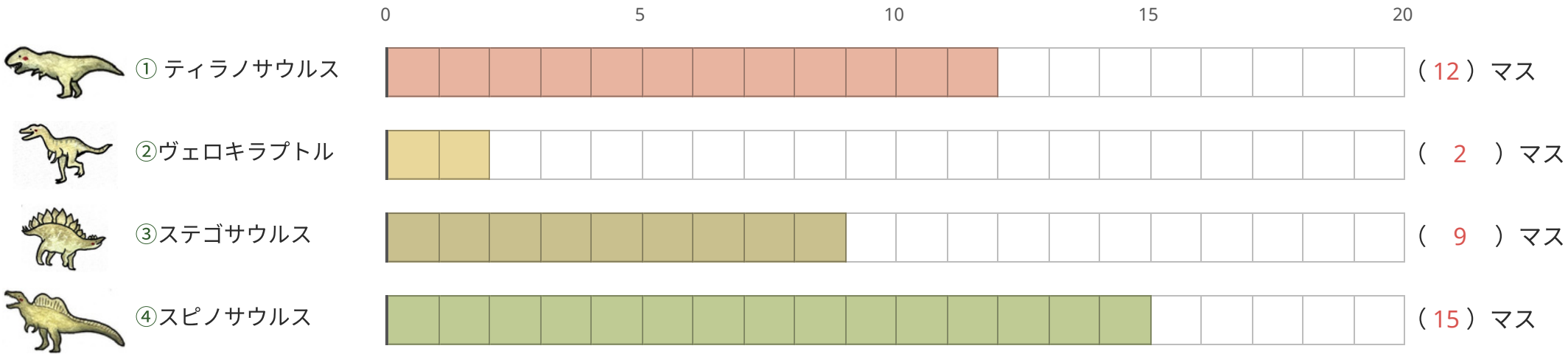

くらべて みよう（みの まわりの もの）



1 いちばん ながい きょうりゅうは どれ？ ばんごうで こたえよう。

④ スピノサウルス

2 いちばん みじかい きょうりゅうは どれ？

② ヴェロキラプトル

3 ①ティラノサウルスと③ステゴサウルス、ながいのは どっち？

① ティラノサウルス

4 「バス」より ながい きょうりゅうを ぜんぶ ばんごうで かこう。

④

5 ④は ③より なんマス ながい？

6マス（15 − 9 ＝ 6）

6 ②と ④を つなげると なんマス？ チャレンジ

17マス（2 ＋ 15 ＝ 17）

※ おおきさは だいたいの ながさです。イラスト：てがき すいさい

きょうりゅう ものさし

1ねんせい　2　どっちが ながい？

なまえ（　　）

いろのついたマスをかぞえて、（）にかずをかこう。1マスは 1メートルだよ。

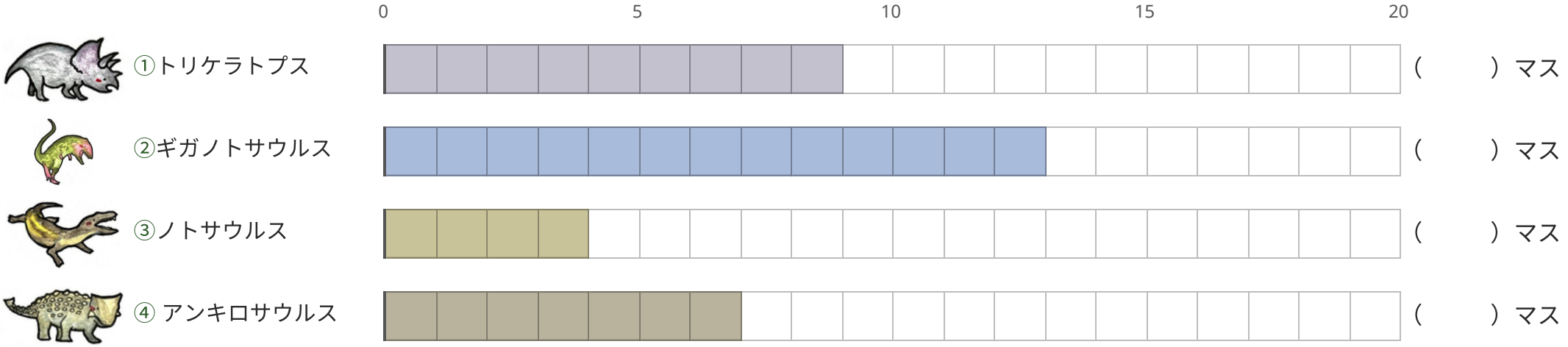

くらべて みよう（みの まわりの もの）

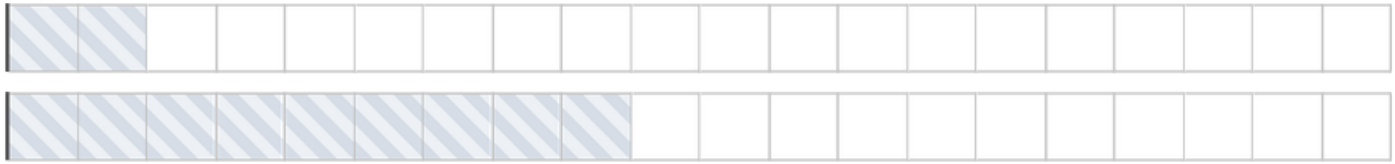

1 いちばん ながい きょうりゅうは どれ？ ばんごうで こたえよう。

2 いちばん みじかい きょうりゅうは どれ？

3 ①トリケラトプス と ②ギガノトサウルス、ながいのは どっち？

4 「きょうしつ の よこ」より ながい きょうりゅうを ぜんぶ ばんごうで かこう。

5 ②は ④より なんマス ながい？

6 ②と ④を つなげると なんマス？ チャレンジ

※ おおきさは だいたいの ながさです。イラスト：てがき すいさい

きょうりゅう ものさし

1ねんせい　2　どっちが ながい？　こたえ

いろのついたマスをかぞえて、（）にかずをかこう。1マスは 1メートルだよ。

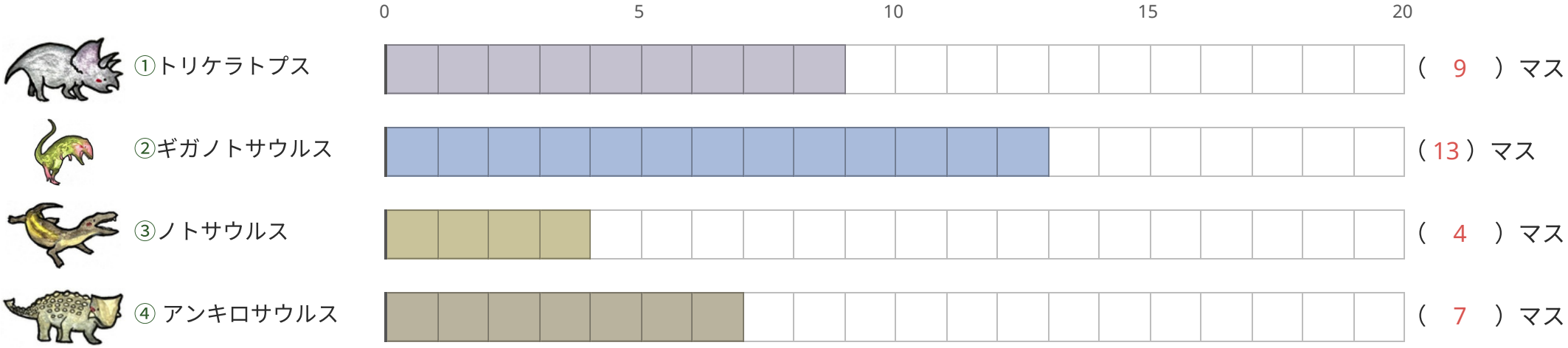

くらべて みよう（みの まわりの もの）

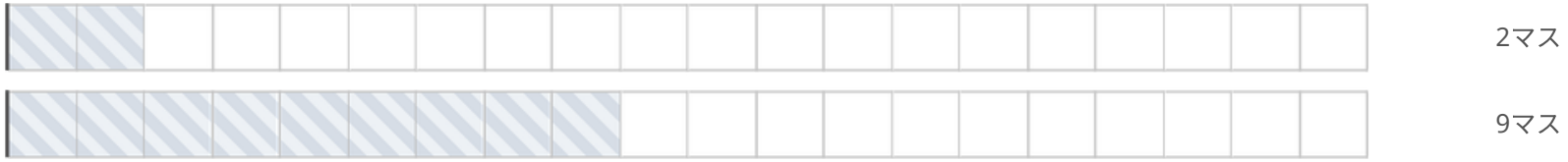

1 いちばん ながい きょうりゅうは どれ？ ばんごうで こたえよう。

② ギガノトサウルス

2 いちばん みじかい きょうりゅうは どれ？

③ ノトサウルス

3 ①トリケラトプスと②ギガノトサウルス、ながいのは どっち？

② ギガノトサウルス

4「きょうしつ の よこ」より ながい きょうりゅうを ぜんぶ ばんごうで かこう。

②

5 ②は ④より なんマス ながい？

6マス（13 − 7 ＝ 6）

6 ②と ④を つなげると なんマス？ チャレンジ

20マス（13 ＋ 7 ＝ 20）

※ おおきさは だいたいの ながさです。イラスト：てがき すいさい

きょうりゅう ものさし

1ねんせい　3　どっちが ながい？

なまえ（　　）

いろのついたマスをかぞえて、（）にかずをかこう。1マスは 1メートルだよ。

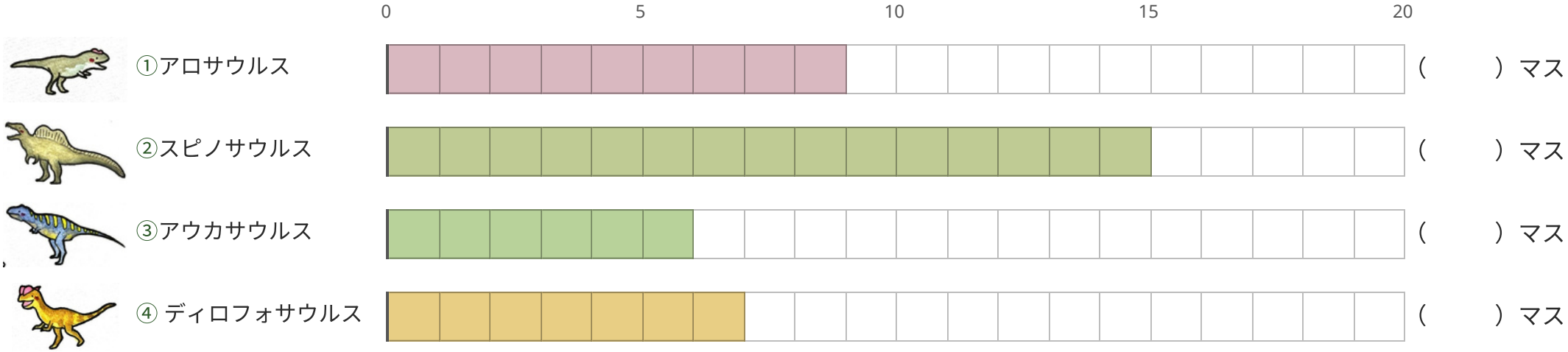

くらべて みよう（みの まわりの もの）



1 いちばん ながい きょうりゅうは どれ？ ばんごうで こたえよう。

2 いちばん みじかい きょうりゅうは どれ？

3 ①アロサウルス と ③アウカサウルス、ながいのは どっち？

4 「でんしゃ 1りょう」より ながい きょうりゅうを ぜんぶ ばんごうで かこう。

5 ②は ④より なんマス ながい？

6 ①と ④を つなげると なんマス？ チャレンジ

※ おおきさは だいたいの ながさです。イラスト：てがき すいさい

きょうりゅう ものさし

1ねんせい　3　どっちが ながい？　こたえ

いろのついたマスをかぞえて、（）にかずをかこう。1マスは 1メートルだよ。

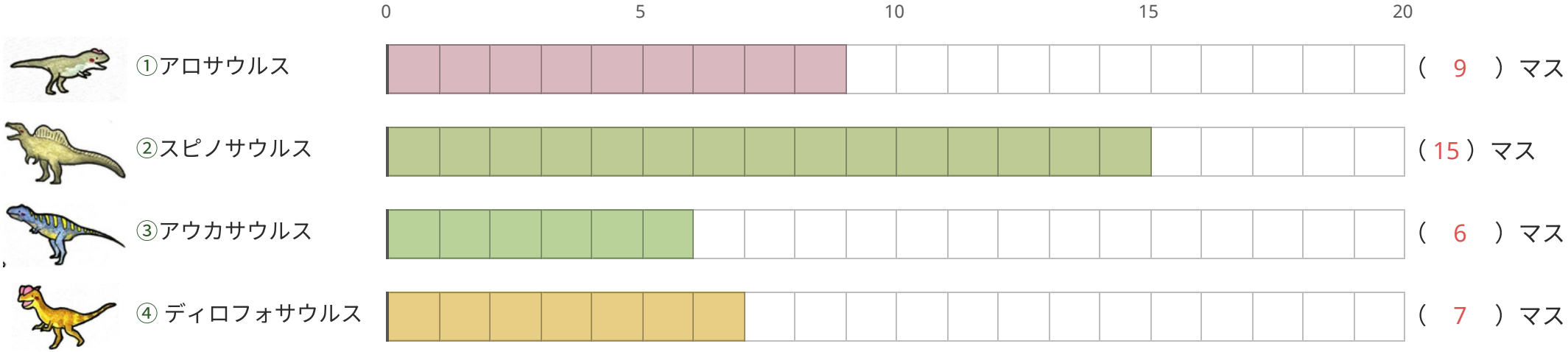

くらべて みよう（みの まわりの もの）



1 いちばん ながい きょうりゅうは どれ？ ばんごうで こたえよう。

② スピノサウルス

2 いちばん みじかい きょうりゅうは どれ？

③ アウカサウルス

3 ①アロサウルスと③アウカサウルス、ながいのは どっち？

① アロサウルス

4「でんしゃ 1りょう」より ながい きょうりゅうを ぜんぶ ばんごうで かこう。

ない

5 ②は ④より なんマス ながい？

8マス（15 − 7 ＝ 8）

6 ①と ④を つなげると なんマス？ チャレンジ

16マス（9 ＋ 7 ＝ 16）

※ おおきさは だいたいの ながさです。イラスト：てがき すいさい

きょうりゅう ものさし

1ねんせい　4　どっちが ながい？

なまえ（　　）

いろのついたマスをかぞえて、（）にかずをかこう。1マスは 1メートルだよ。

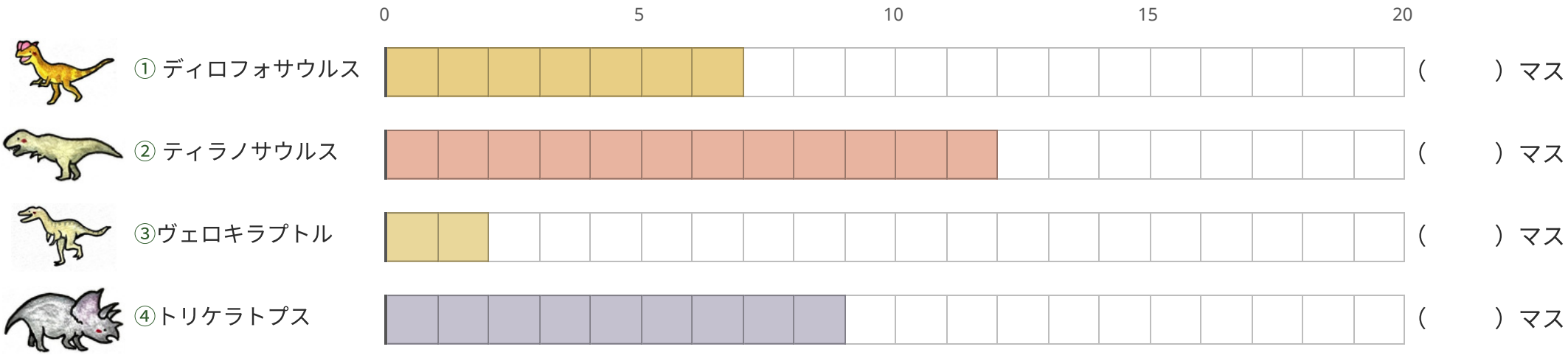

くらべて みよう（みの まわりの もの）

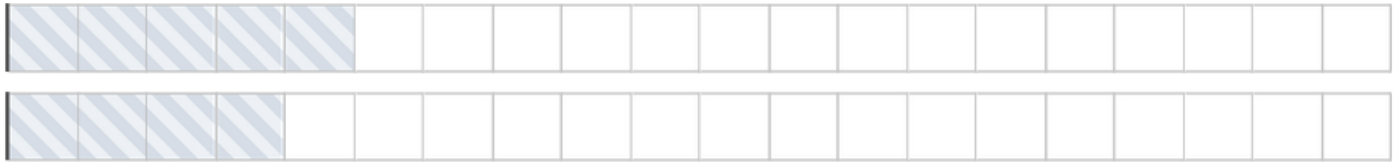

1 いちばん ながい きょうりゅうは どれ？ ばんごうで こたえよう。

2 いちばん みじかい きょうりゅうは どれ？

3 ①ディロフォサウルス と ④トリケラトプス、ながいのは どっち？

4 「キリン（せの たかさ）」より ながい きょうりゅうを ぜんぶ ばんごうで かこう。

5 ②は ①より なんマス ながい？

6 ①と ②を つなげると なんマス？ チャレンジ

※ おおきさは だいたいの ながさです。イラスト：てがき すいさい

きょうりゅう ものさし

1ねんせい　4　どっちが ながい？　こたえ

いろのついたマスをかぞえて、（）にかずをかこう。1マスは 1メートルだよ。

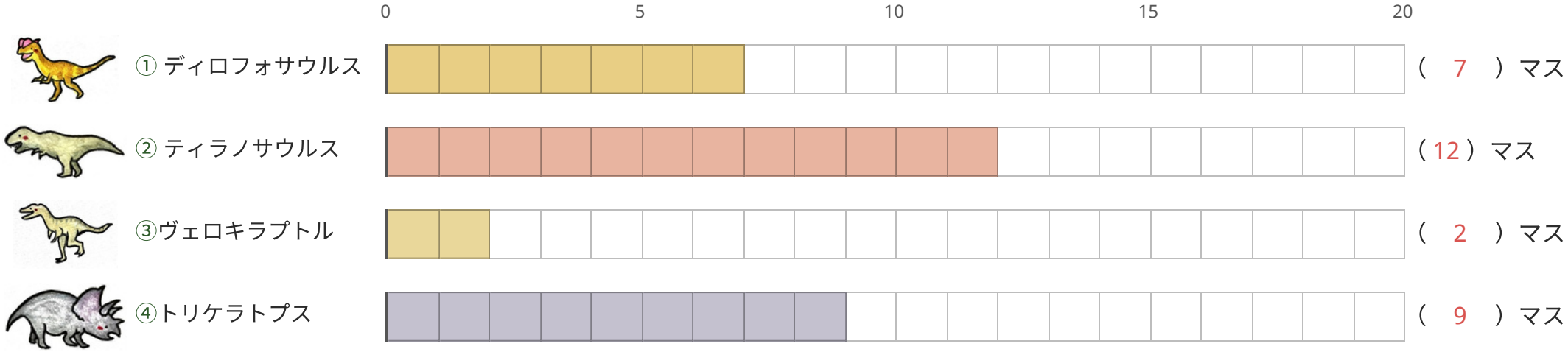

くらべて みよう（みの まわりの もの）

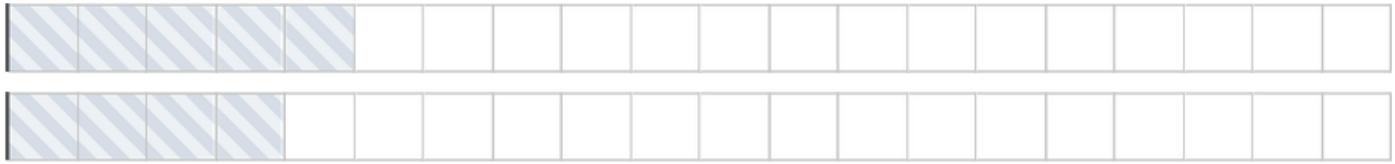

1 いちばん ながい きょうりゅうは どれ？ ばんごうで こたえよう。

② ティラノサウルス

2 いちばん みじかい きょうりゅうは どれ？

③ ヴェロキラプトル

3 ①ディロフォサウルス と ④トリケラトプス、ながいのは どっち？

④ トリケラトプス

4「キリン（せの たかさ）」より ながい きょうりゅうを ぜんぶ ばんごうで かこう。

①・②・④

5 ②は ①より なんマス ながい？

5マス（12 − 7 ＝ 5）

6 ①と ②を つなげると なんマス？ チャレンジ

19マス（7 ＋ 12 ＝ 19）

※ おおきさは だいたいの ながさです。イラスト：てがき すいさい

きょうりゅう ものさし

1ねんせい　5　どっちが ながい？

なまえ（　　）

いろのついたマスをかぞえて、（）にかずをかこう。1マスは 1メートルだよ。

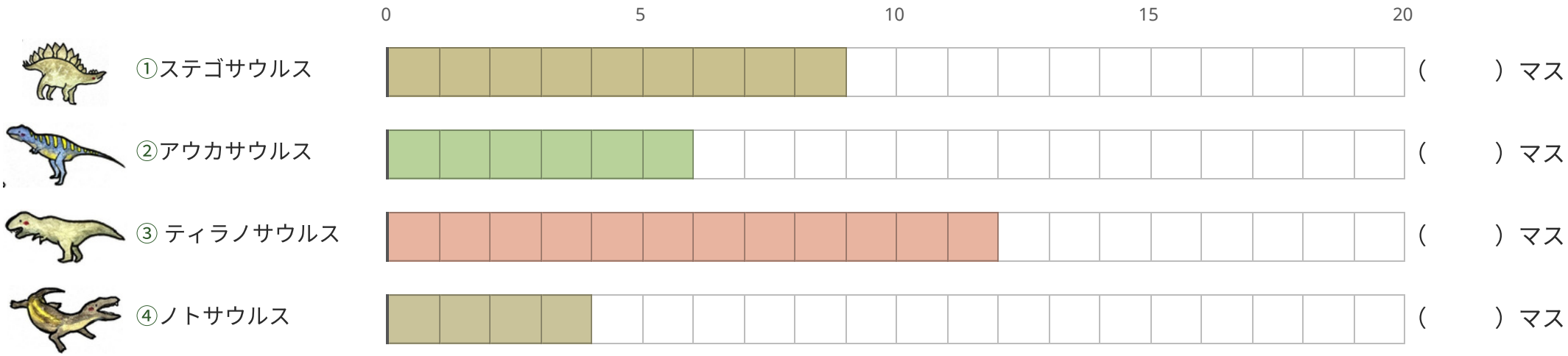

くらべて みよう（みの まわりの もの）



1 いちばん ながい きょうりゅうは どれ？ ばんごうで こたえよう。

2 いちばん みじかい きょうりゅうは どれ？

3 ①ステゴサウルス と ②アウカサウルス、ながいのは どっち？

4 「へやの ドア（たかさ）」より ながい きょうりゅうを ぜんぶ ばんごうで かこう。

5 ③は ②より なんマス ながい？

6 ②と ③を つなげると なんマス？ チャレンジ

※ おおきさは だいたいの ながさです。イラスト：てがき すいさい

きょうりゅう ものさし

1ねんせい　5　どっちが ながい？　こたえ

いろのついたマスをかぞえて、（）にかずをかこう。1マスは 1メートルだよ。

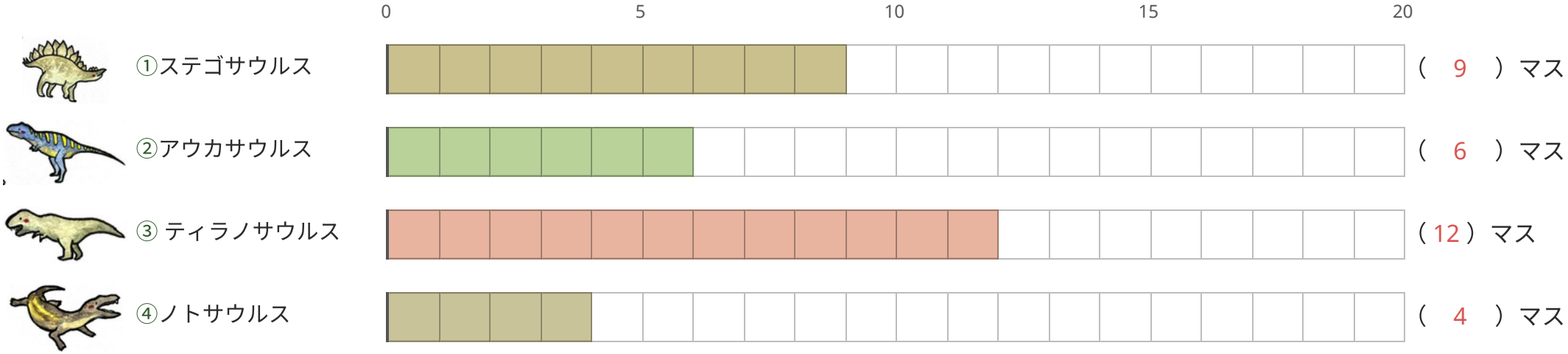

くらべて みよう（みの まわりの もの）



1 いちばん ながい きょうりゅうは どれ？ ばんごうで こたえよう。

③ ティラノサウルス

2 いちばん みじかい きょうりゅうは どれ？

④ ノトサウルス

3 ①ステゴサウルスと②アウカサウルス、ながいのは どっち？

① ステゴサウルス

4「へやの ドア（たかさ）」より ながい きょうりゅうを ぜんぶ ばんごうで かこう。

①・②・③・④

5 ③は ②より なんマス ながい？

6マス（12 − 6 ＝ 6）

6 ②と ③を つなげると なんマス？ チャレンジ

18マス（6 ＋ 12 ＝ 18）

※ おおきさは だいたいの ながさです。イラスト：てがき すいさい