きょうりゅう ものさし

2ねんせい　1　ながさを くらべよう

なまえ（　　）

めもりをよんで、ながさを（）にかこう。ほそいせんは 1mごとだよ。

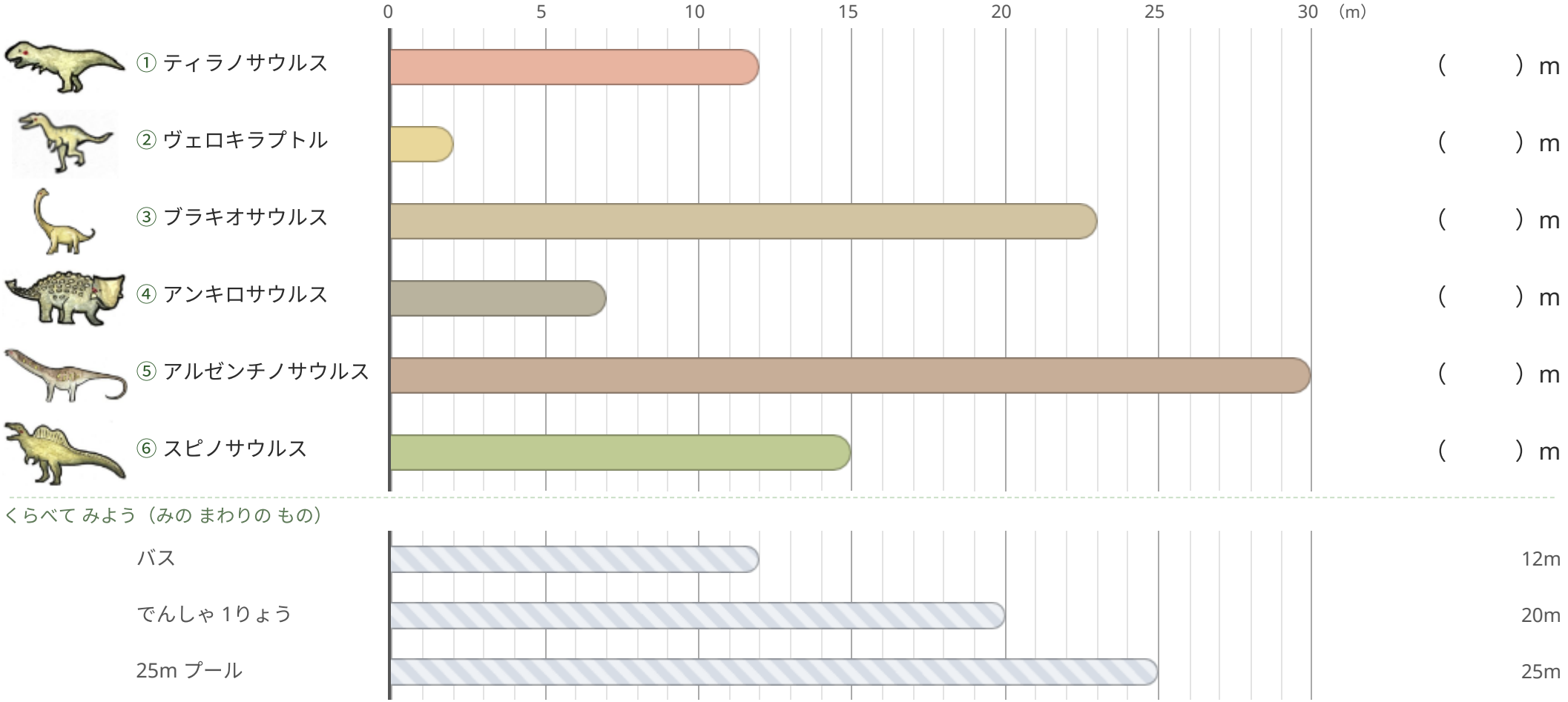

くらべて みよう（みの まわりの もの）

1 「バス」（12m）より ながい きょうりゅうを ぜんぶ ばんごうで かこう。

2 ③は ①より どれだけ ながい？

3 ②と ③を つなげると、ながさは どれだけ？

4 ②の ながさは なんcm？

5 みじかい じゅんに ばんごうを ならべよう。

6 ①の ながさは ②の なんばい？ チャレンジ

※ おおきさは だいたいの ながさです。イラスト：てがき すいさい

きょうりゅう ものさし

2ねんせい　1　ながさを くらべよう　こたえ

めもりをよんで、ながさを（）にかこう。ほそいせんは 1mごとだよ。

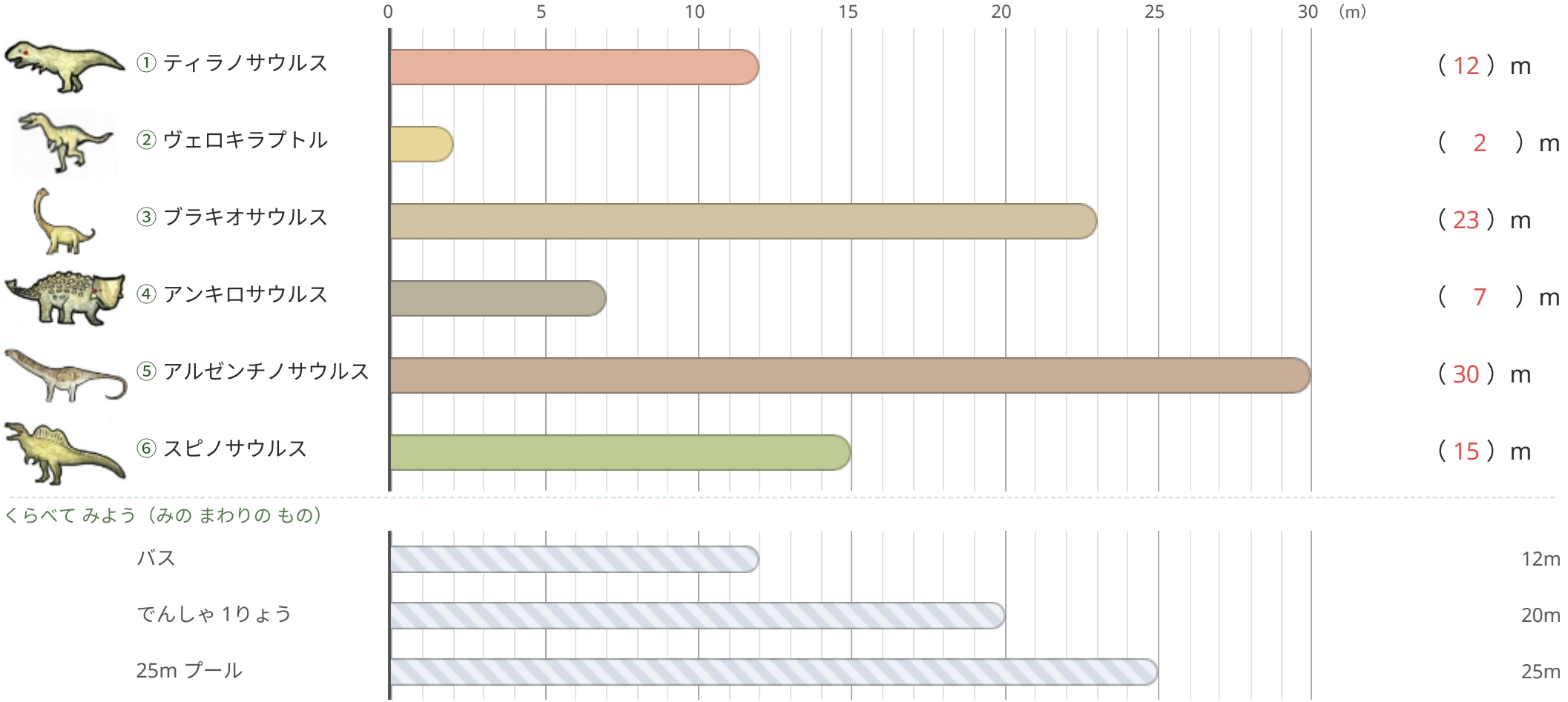

くらべて みよう（みの まわりの もの）

1 「バス」（12m）より ながい きょうりゅうを ぜんぶ ばんごうで かこう。

③.⑤.⑥

2 ③は ①より どれだけ ながい？

11m（23m − 12m）

3 ②と ③を つなげると、ながさは どれだけ？

25m（2m ＋ 23m）

4 ②の ながさは なんcm？

200cm

5 みじかい じゅんに ばんごうを ならべよう。

② → ④ → ① → ⑥ → ③ → ⑤

6 ①の ながさは ②の なんばい？　チャレンジ

6ばい

※ おおきさは だいたいの ながさです。イラスト：てがき すいさい

きょうりゅう ものさし

2ねんせい　2　ながさを くらべよう

なまえ（　　）

めもりをよんで、ながさを（）にかこう。ほそいせんは 10cmごと、すこし こい せんは 50cmだよ。

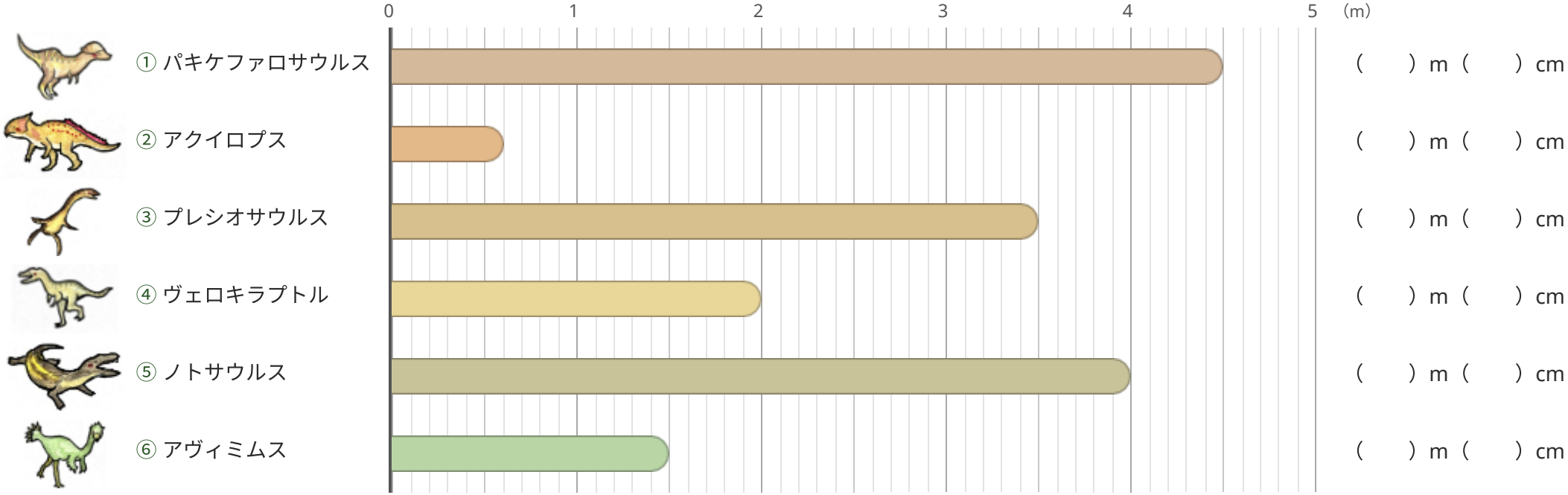

くらべて みよう（みの まわりの もの）

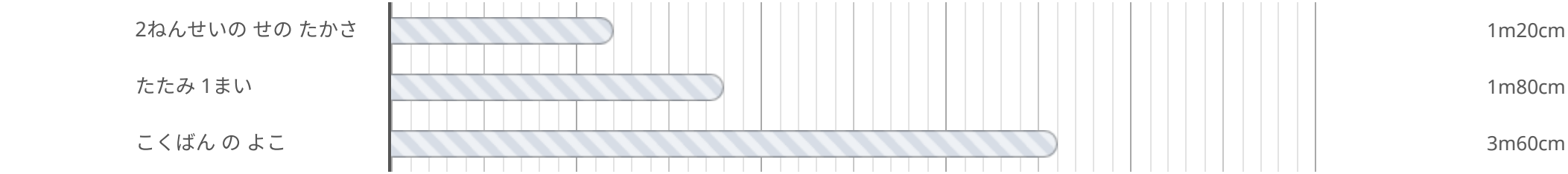

1 「2ねんせいの せの たかさ」（1m20cm）より ながい きょうりゅうを ぜんぶ ばんごうで かこう。

2 ③は ⑥より どれだけ ながい？

3 ②と ⑤を つなげると、ながさは どれだけ？

4 ⑥の ながさは なんcm？

5 みじかい じゅんに ばんごうを ならべよう。

6 ①の ながさは ⑥の なんばい？ チャレンジ

※ おおきさは だいたいの ながさです。イラスト：てがき すいさい

きょうりゅう ものさし

2ねんせい　2　ながさを くらべよう　こたえ

めもりをよんで、ながさを（）にかこう。ほそいせんは 10cmごと、すこし こい せんは 50cmだよ。

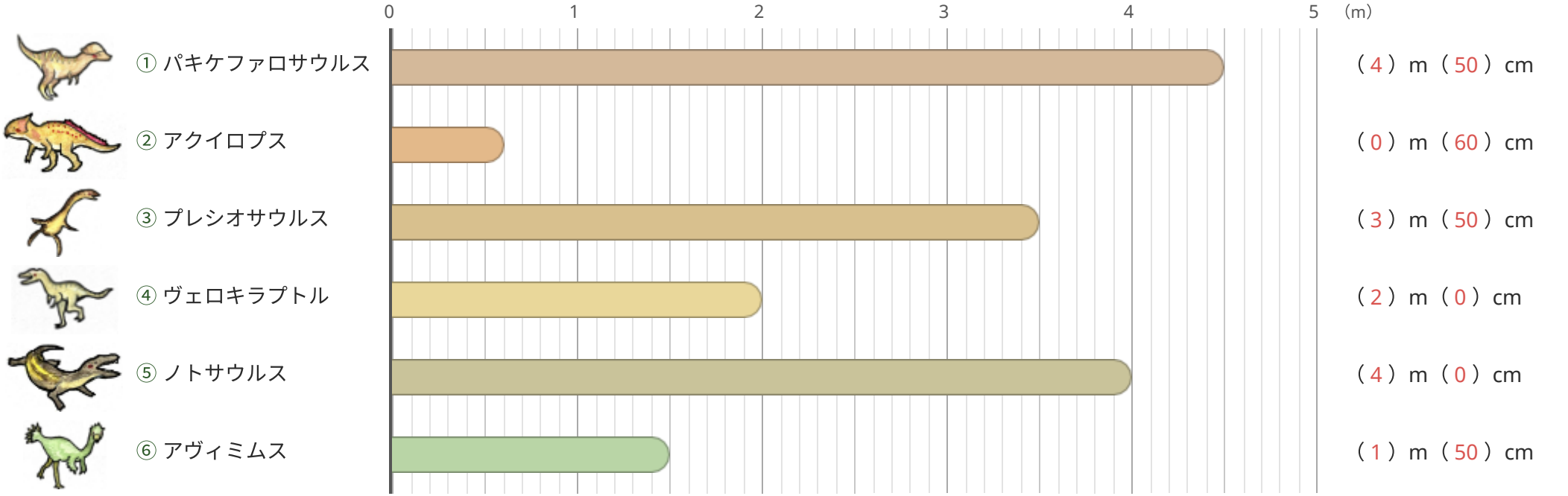

くらべて みよう（みの まわりの もの）

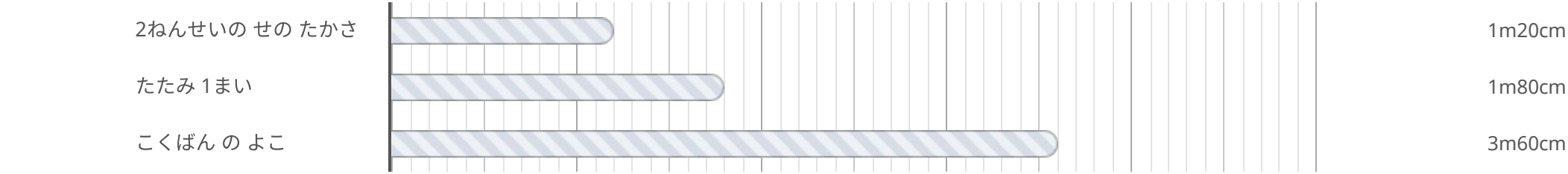

1 「2ねんせいの せの たかさ」（1m20cm）より ながい きょうりゅうを ぜんぶ ばんごうで かこう。

①.③.④.⑤.⑥

2 ③は ⑥より どれだけ ながい？

2m（3m50cm − 1m50cm）

3 ②と ⑤を つなげると、ながさは どれだけ？

4m60cm（60cm ＋ 4m）

4 ⑥の ながさは なんcm？

150cm

5 みじかい じゅんに ばんごうを ならべよう。

② → ⑥ → ④ → ③ → ⑤ → ①

6 ①の ながさは ⑥の なんばい？ チャレンジ

3ばい

※ おおきさは だいたいの ながさです。イラスト：てがき すいさい

きょうりゅう ものさし

2ねんせい　3　ながさを くらべよう

なまえ（　　）

めもりをよんで、ながさを（）にかこう。ほそいせんは 50cmごとだよ。

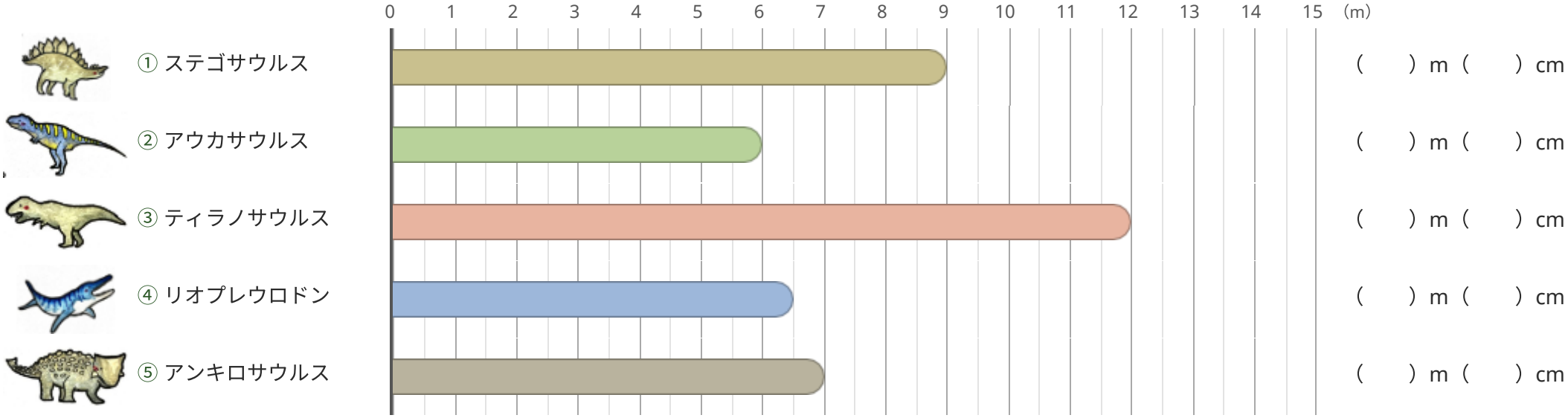

くらべて みよう（みの まわりの もの）

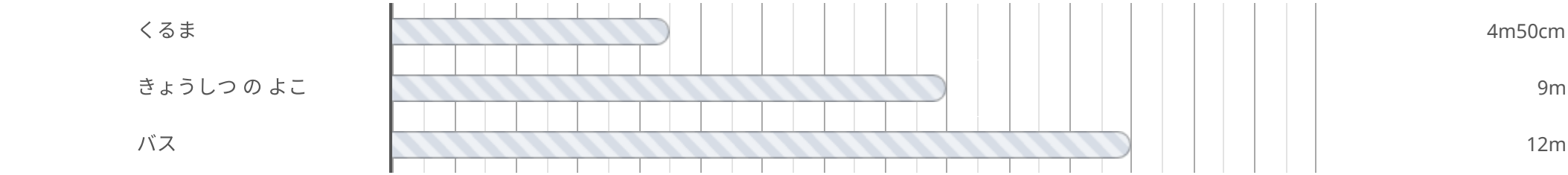

1 「きょうしつ の よこ」（9m）より ながい きょうりゅうを ぜんぶ ばんごうで かこう。

2 ①は ④より どれだけ ながい？

3 ④と ⑤を つなげると、ながさは どれだけ？

4 ④の ながさは なんcm？

5 みじかい じゅんに ばんごうを ならべよう。

6 ③の ながさは ②の なんばい？ チャレンジ

※ おおきさは だいたいの ながさです。イラスト：てがき すいさい

きょうりゅう ものさし

2ねんせい　3　ながさを くらべよう　こたえ

めもりをよんで、ながさを（）にかこう。ほそいせんは 50cmごとだよ。

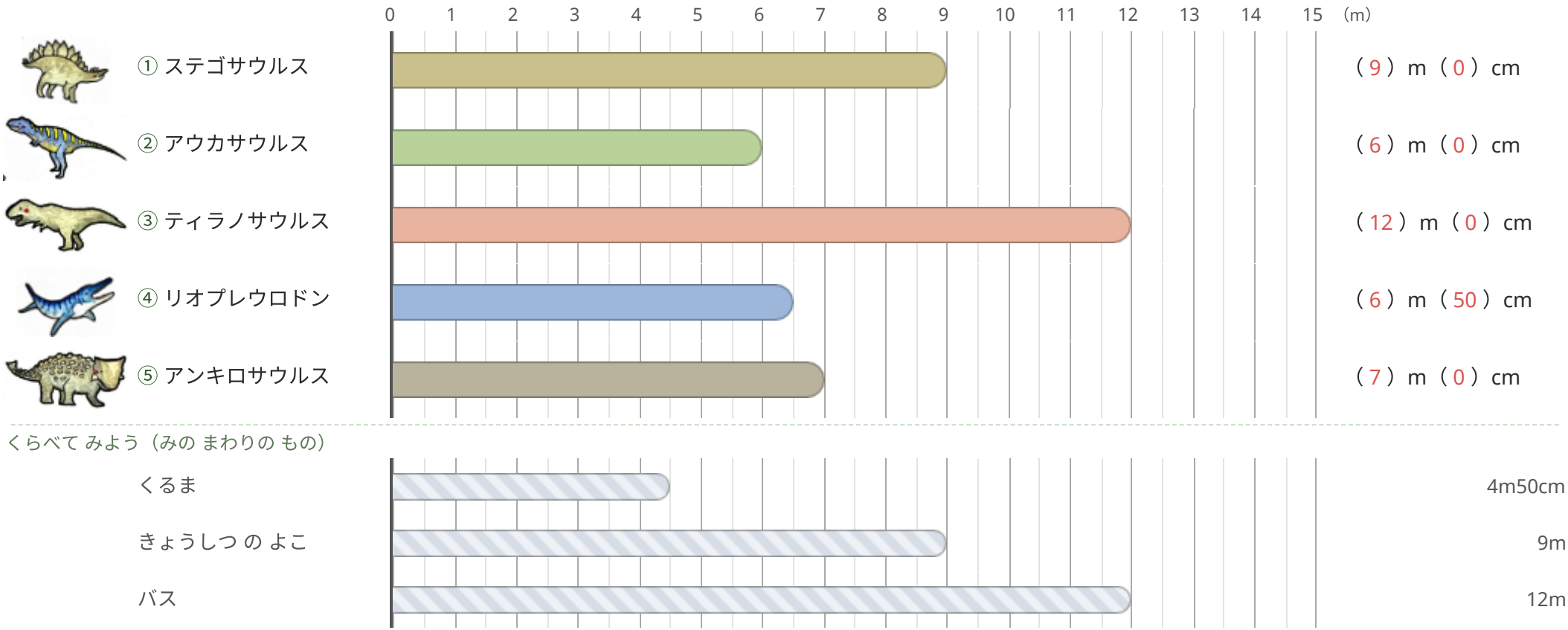

1 「きょうしつ の よこ」（9m）より ながい きょうりゅうを ぜんぶ ばんごうで かこう。

③

2 ①は ④より どれだけ ながい？

2m50cm（9m − 6m50cm）

3 ④と ⑤を つなげると、ながさは どれだけ？

13m50cm（6m50cm ＋ 7m）

4 ④の ながさは なんcm？

650cm

5 みじかい じゅんに ばんごうを ならべよう。

② → ④ → ⑤ → ① → ③

6 ③の ながさは ②の なんばい？　チャレンジ

2ばい

※ おおきさは だいたいの ながさです。イラスト：てがき すいさい

きょうりゅう ものさし

2ねんせい　4　ながさを くらべよう

なまえ（　　）

めもりをよんで、ながさを（）にかこう。ほそいせんは 1mごとだよ。

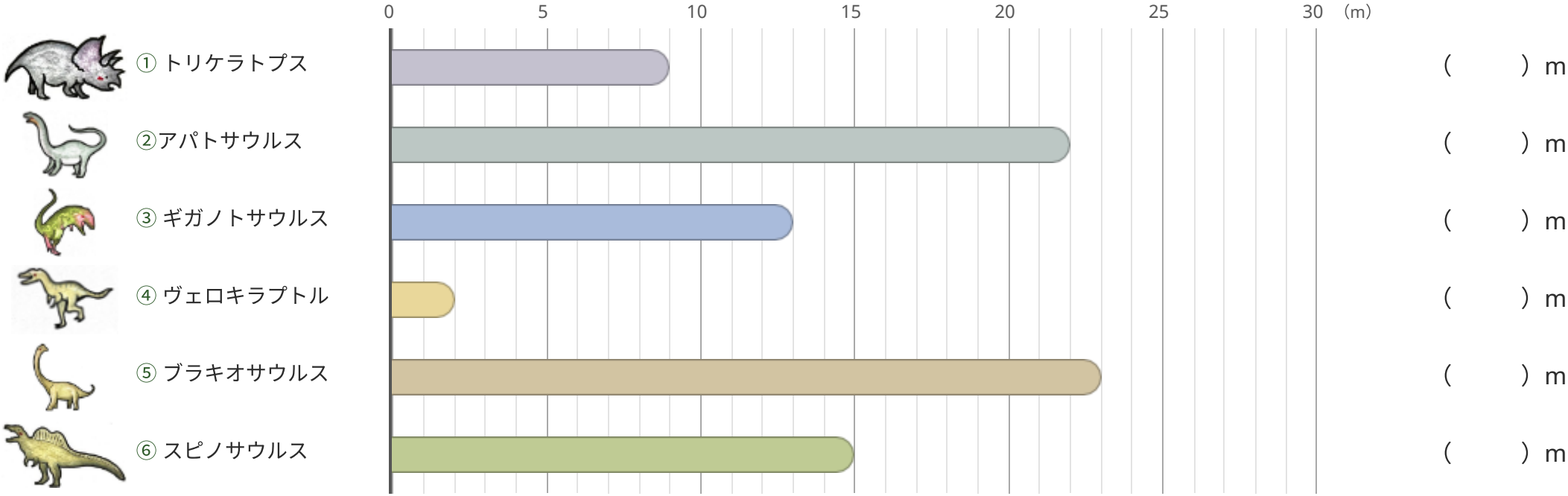

くらべて みよう（みの まわりの もの）

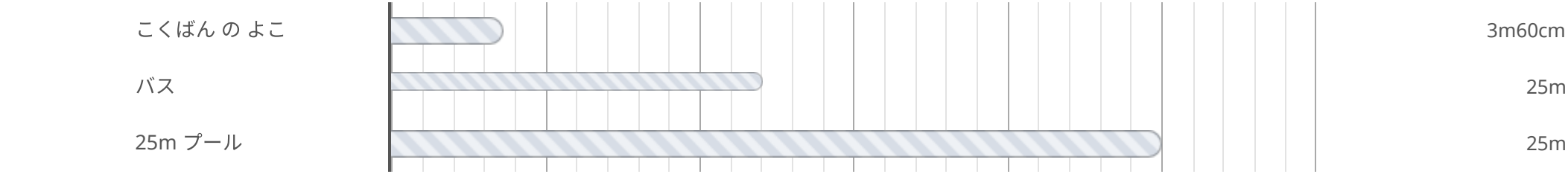

1 「こくばん の よこ」（3m60cm）より ながい きょうりゅうを ぜんぶ ばんごうで かこう。

2 ②は ③より どれだけ ながい？

3 ②と ④を つなげると、ながさは どれだけ？

4 ④の ながさは なんcm？

5 みじかい じゅんに ばんごうを ならべよう。

6 ⑤と ④の ちがいは なんcm？ チャレンジ

※ おおきさは だいたいの ながさです。イラスト：てがき すいさい

きょうりゅう ものさし

2ねんせい　4　ながさを くらべよう　こたえ

めもりをよんで、ながさを（）にかこう。ほそいせんは 1mごとだよ。

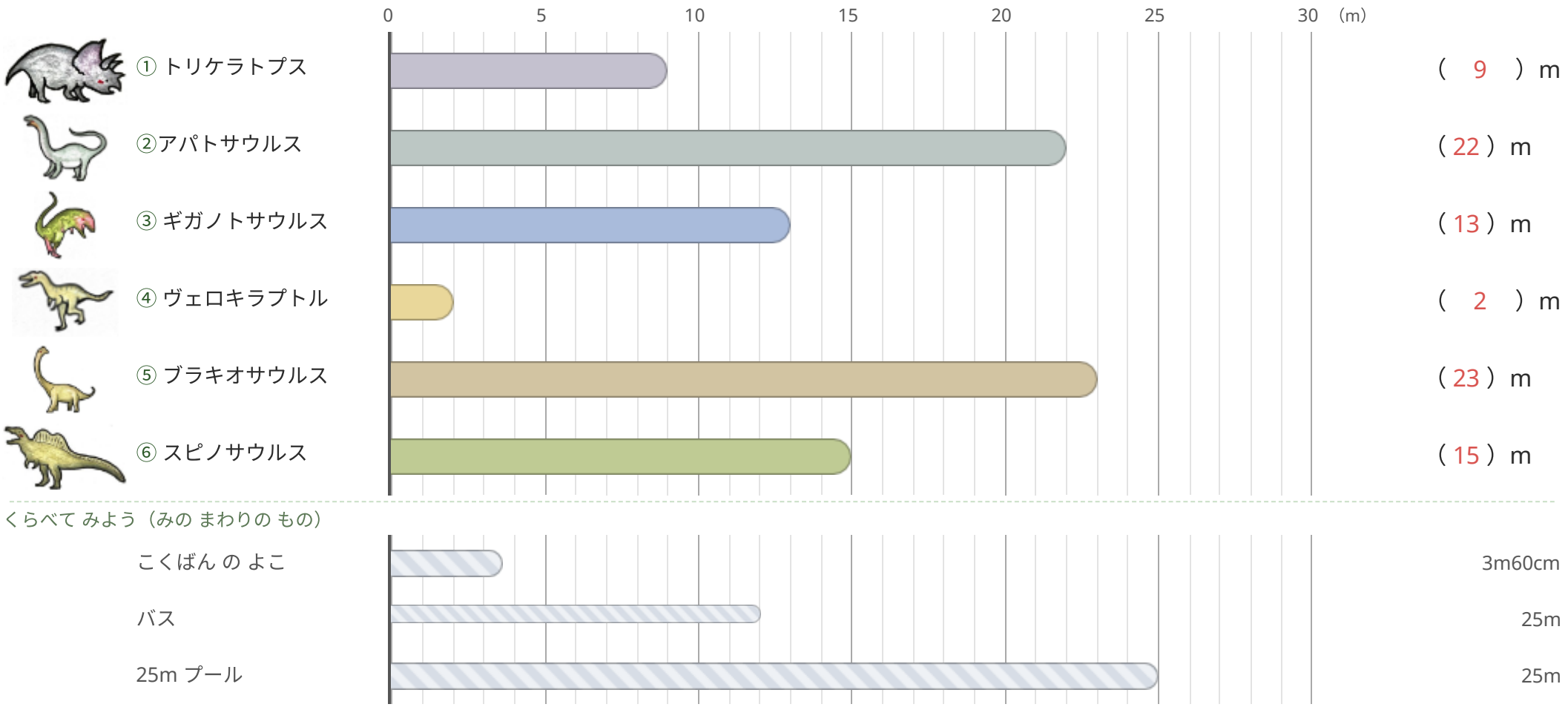

くらべて みよう（みの まわりの もの）

1 「こくばん の よこ」（3m60cm）より ながい きょうりゅうを ぜんぶ ばんごうで かこう。

①.②.③.⑤.⑥

2 ②は ③より どれだけ ながい？

9m（22m − 13m）

3 ②と ④を つなげると、ながさは どれだけ？

24m（22m ＋ 2m）

4 ④の ながさは なんcm？

200cm

5 みじかい じゅんに ばんごうを ならべよう。

④ → ① → ③ → ⑥ → ② → ⑤

6 ⑤と ④の ちがいは なんcm？ チャレンジ

2100cm（2300cm − 200cm）

※ おおきさは だいたいの ながさです。イラスト：てがき すいさい

きょうりゅう ものさし

2ねんせい　5　ながさを くらべよう

なまえ（　　）

めもりをよんで、ながさを（）にかこう。ほそいせんは 50cmごとだよ。

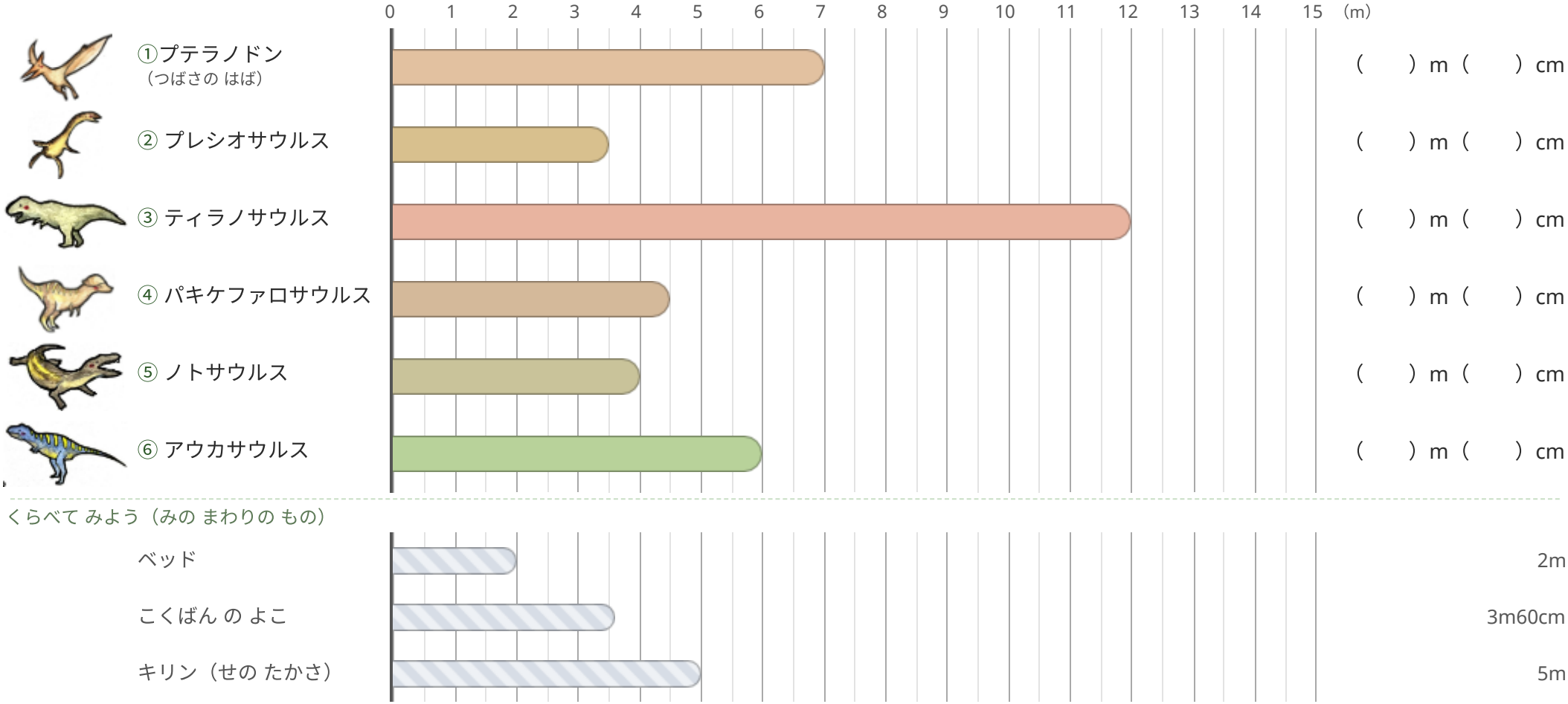

1 「こくばん の よこ」（3m60cm）より ながい きょうりゅうを ぜんぶ ばんごうで かこう。

2 ①は ④より どれだけ ながい？

3 ②と ⑥を つなげると、ながさは どれだけ？

4 ②の ながさは なんcm？

5 みじかい じゅんに ばんごうを ならべよう。

6 ①の ながさは ②の なんばい？ チャレンジ

※ おおきさは だいたいの ながさです。イラスト：てがき すいさい

きょうりゅう ものさし

2ねんせい　5　ながさを くらべよう　こたえ

めもりをよんで、ながさを（）にかこう。ほそいせんは 50cmごとだよ。

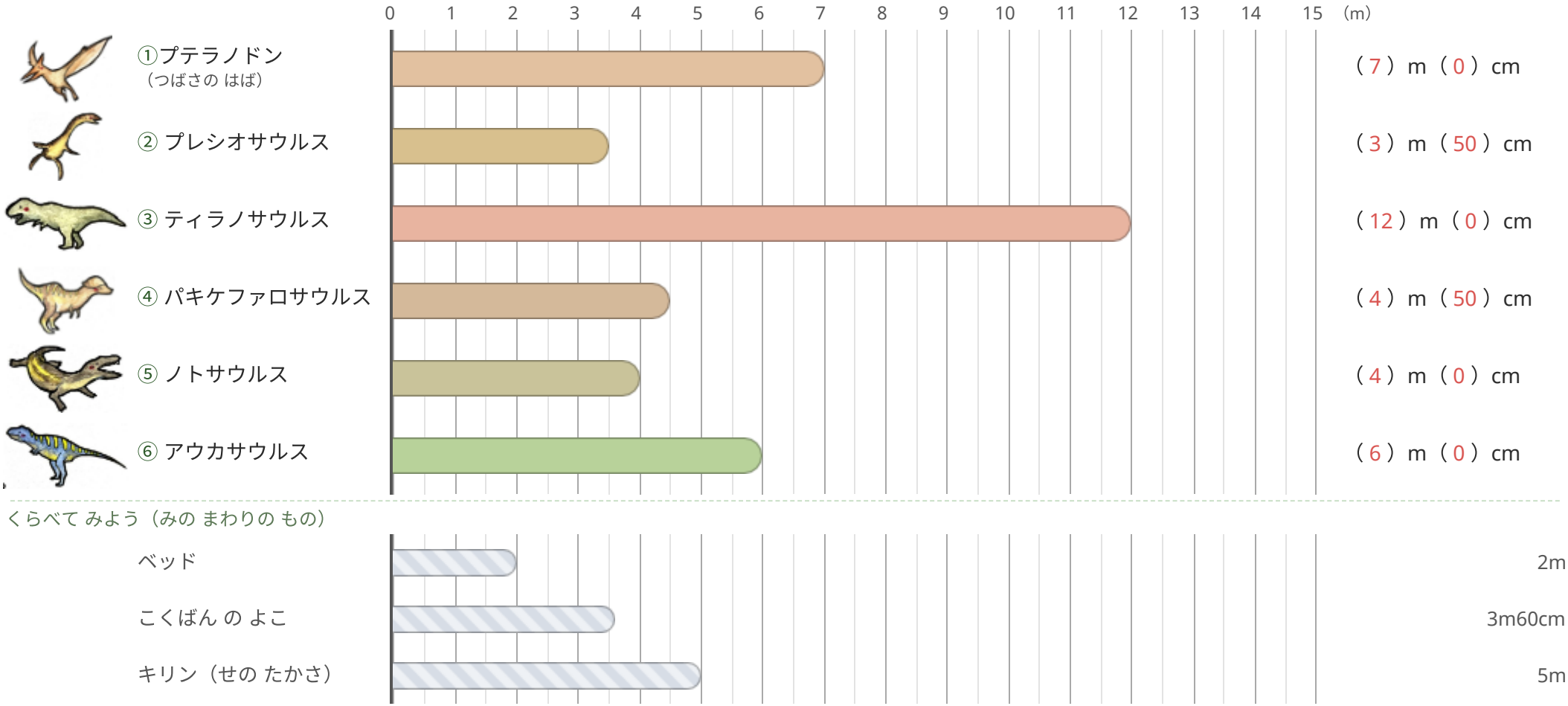

くらべて みよう（みの まわりの もの）

1 「こくばん の よこ」（3m60cm）より ながい きょうりゅうを ぜんぶ ばんごうで かこう。

①.③.④.⑤.⑥

2 ①は ④より どれだけ ながい？

2m50cm（7m − 4m50cm）

3 ②と ⑥を つなげると、ながさは どれだけ？

9m50cm（3m50cm ＋ 6m）

4 ②の ながさは なんcm？

350cm

5 みじかい じゅんに ばんごうを ならべよう。

② → ⑤ → ④ → ⑥ → ① → ③

6 ①の ながさは ②の なんばい？　チャレンジ

2ばい

※ おおきさは だいたいの ながさです。イラスト：てがき すいさい